Шифр_____

Всероссийская олимпиада школьников по географии 2018-2019 уч.г.
Школьный этап
10-11 классы
Время на выполнение заданий: 60 минут
Максимальное количество баллов: 40
Ответы на вопросы тестового раунда занесите в таблицу

Тестовый раунд (15 баллов)

1. **Найди соответствие:**

1. Эйрик Рыжий	**А.** 1779г., открыл Гавайские острова
2. Д. Кук	**Б.**1648г., открыл пролив межу Азией и Северной Америкой
3. С. Дежнев	**В.** 9 век, открыл Гренландию
4. Великая Северная экспедиция	**Г.** 1606, первый из европейцев подошел к берегам Австралии
5. В. Янсзон	**Д.** 1733-43 г.г.

2. **На плане местности указан именованный масштаб «в 1 см – 6 м». Какой численный масштаб ему соответствует?**
   А) 1:6 В) 1:600
   Б) 1:60 Г) 1:6000
3. **Установите соответствие между природным объектом и поясом освещённости, в котором он располагается:**

Природный объект	**Пояс освещенности**
1. о-ва Зеленого мыса	**А.** северный полярный
2. Пиренейский п-ов	**Б.** северный умеренный
3. о-в Тасмания	**В.** тропический
4. Земля Франца-Иосифа	**Г.** южный умеренный

4. **Выберите <u>неверные</u> утверждения:**
   А) В тундре преобладают дерново-подзолистые почвы
   Б) В степях преобладают серые лесные почвы
   В) Лесостепная зона – это переходная зона от леса к тундрам
   Г) В настоящее время степи почти полностью распаханы
   Д) Поверхностный сток в степях незначительный
   Е) На среднесибирском плоскогорье преобладает темнохвойная тайга
   Ж) В зоне степей много грызунов
   З) Смешанные леса протянулись широкой полосой от западных границ до Охотского моря
   И) В лесотундре лес встречается в основном в долинах рек
5. **Крупнейшие ГЭС России построены на реке:**
   А) Волге
   Б) Енисее
   В) Ангаре
   Г) Оби
6. **Многие центры и крупные города субъектов РФ, связаны прямым железнодорожным сообщением, где курсируют фирменные именные поезда. Определите, какие города они связывают. Соотнесите название пояса и маршрута его следования.**

Название поезда	**Маршрут следования**

1. « Баргузин»	**А.** Нижний Новгород - Санкт-Петербург
2. «Белые ночи»	**Б.** Забайкальск - Иркутск
3. «Волга»	**В.** Вологда – Санкт-Петербург
4. «Гилюй»	**Г.** Тында – Благовещенск
5. «Даурия»	**Д.** Чита - Забайкальск

7. Какие из утверждений о России являются верными?

1. Животноводство в России даёт больше продукции (по стоимости), чем растениеводство.
2. Среднее Поволжье является главным районом в России по выращиванию сои.
3. Число автомобильных дорог в восточных районах России меньше, чем в западных.
4. Архангельск - самый крупный российский порт на Северном Ледовитом океане.

8. Какие три из перечисленных городов России имеют наибольшую численность населения? Запишите в ответ цифры *в порядке возрастания*, под которыми указаны эти города.

1. Челябинск
2. Нижний Тагил
3. Тюмень
4. Ростов-на-Дону
5. Волгоград
6. Астрахань

9. Определите регион России по его краткому описанию.

Этот регион расположен в южной части России, граничит с Украиной и имеет выход к Азовскому морю. Столица региона является городом-миллионером. В регионе действует крупная АЭС, хорошо развито машиностроение.

Ответ: _____

10. Что общего между Финляндией и Удмуртией?

1. Развита добыча нефти и нефтепереработка
2. Коренные жители говорят на языках уральской семьи
3. Население исповедует православие
4. Преобладают плодородные почвы.

11. Какое из перечисленных ниже государств имеет сухопутную границу только с одной страной?

1. Дания
2. США
3. Ямайка
4. Моголия

12. Какие две из перечисленных стран имеют наибольший по численности морской торговый флот?

1. США и Великобритания
2. Россия и Китай
3. США и Китай
4. Либерия и Панама

13. На территории, каких стран располагаются следующие месторождения каменного угля:

1. Рур –
2. Ю. Уэльс –

3. Верхне-Селезкий –
4. Датунский –

14. Отрасли международной специализации. Установить соответствие.

Отрасли международной специализации	**Страны**
1. Лес, бумага	А. Япония
2. Обувь, мотоциклы, макароны, оливковое масло, овощи	Б. Швейцария
3. Крупнейший в мире экспортер автомобилей, электроники, морских судов	В. Финляндия
4. Финансовые услуги и производство часов	Г. Италия

15. Определите страну по её краткому описанию.

Особенностью географического положения этой африканской федеративной республики является выход к Атлантическому океану. Для страны характерен высокий естественный прирост населения. Население этой страны многонационально и многоконфессионально. На территории страны находится одна из десяти крупнейших городских агломераций мира, но более половины населения страны являются сельскими жителями. Страна является членом ОПЕК и входит в число важнейших мировых производителей и экспортёров нефти.

Аналитический раунд (25 баллов)

Задание 1. (6 баллов) Определи полушарие и тип климата по климатограммам.

1 климатограмма	2 климатограмма	3 климатограмма
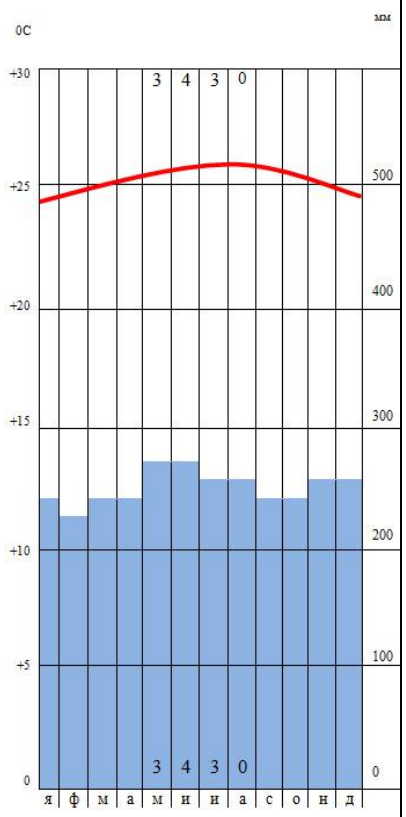	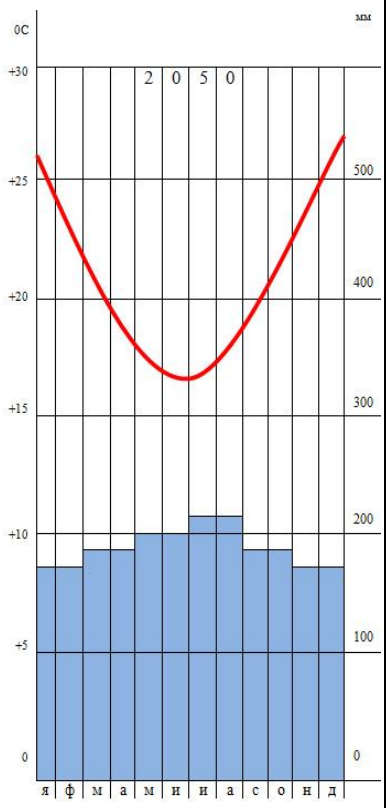	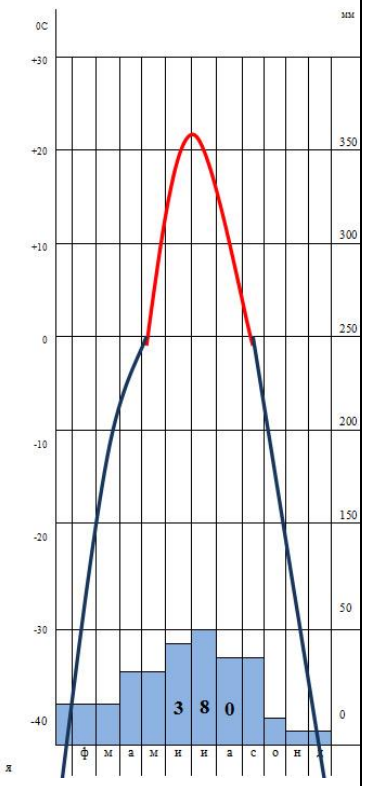

Задание 2. (2 балла)

Самолет вылетел из Ханты-Мансийска (IV часовая зона) в Москву в 12 часов по местному времени Ханты-Мансийска. Расчетное время полёта – 4 часа. Сколько времени будет в Москве, когда самолёт приземлился?

Задание 3. (2 балла)

На уроке учащиеся анализировали статистические данные, приведённые ниже в таблице, в целях сравнения темпов роста ВВП в ЮАР и Италии в период с 2013 по 2015 г. Александр указал, что в Италии, в отличие от ЮАР, ежегодно происходило увеличение объёмов ВВП.

Динамика объёмов ВВП (в % к предыдущему году)

	Страна	2013 г.	2014 г.	2015 г.
1)	ЮАР	100,3	101,9	100,4
2)	Италия	93,8	97,0	99,4

Правильный ли вывод сделал Александр? Свой ответ обоснуйте.

Задание 4. (5 баллов)

Исключите полезное ископаемое, которое *не может* служить сырьем для химической промышленности (мирабилит, нефть, апатиты, бокситы, фосфориты) – 1 балл. Какую продукцию производят из данного полезного ископаемого – 1 балл? Назовите страны мира, которые являются лидерами по его добыче (указать четыре страны лидера, на которые приходиться более 60 % объема мировой добычи) – 3 балла.

Задание 5. (10 баллов)

Перед Вами фрагмент топографической карты. Внимательно посмотрите на карту и выполните задания:

1. Найдите на карте точки А (148,6) и Б (139,6), определите кратчайшее расстояние между ними. Приведите решение и расчеты. (2 балла)
2. Найдите самую высокую точку, лежащую на отрезке АБ. Определите ее высоту над уровнем моря с точностью до десятых долей метра. (1 балл)
3. Отрезок АБ проходит через урочище Жилинский бор. Какие деревья преобладают в лесу в пределах данного урочища? Чему равна средняя высота деревьев, обхват и среднее расстояние между деревьями?(4 балла)
4. Восточнее Жилинского Бора (на берегу реки Сылва) расположен элемент (форма) рельефа. Как он называется? Укажите его глубину. (2 балла)
5. Каковы ширина и глубина реки Сылва в районе деревни Дейково? (1 балл)

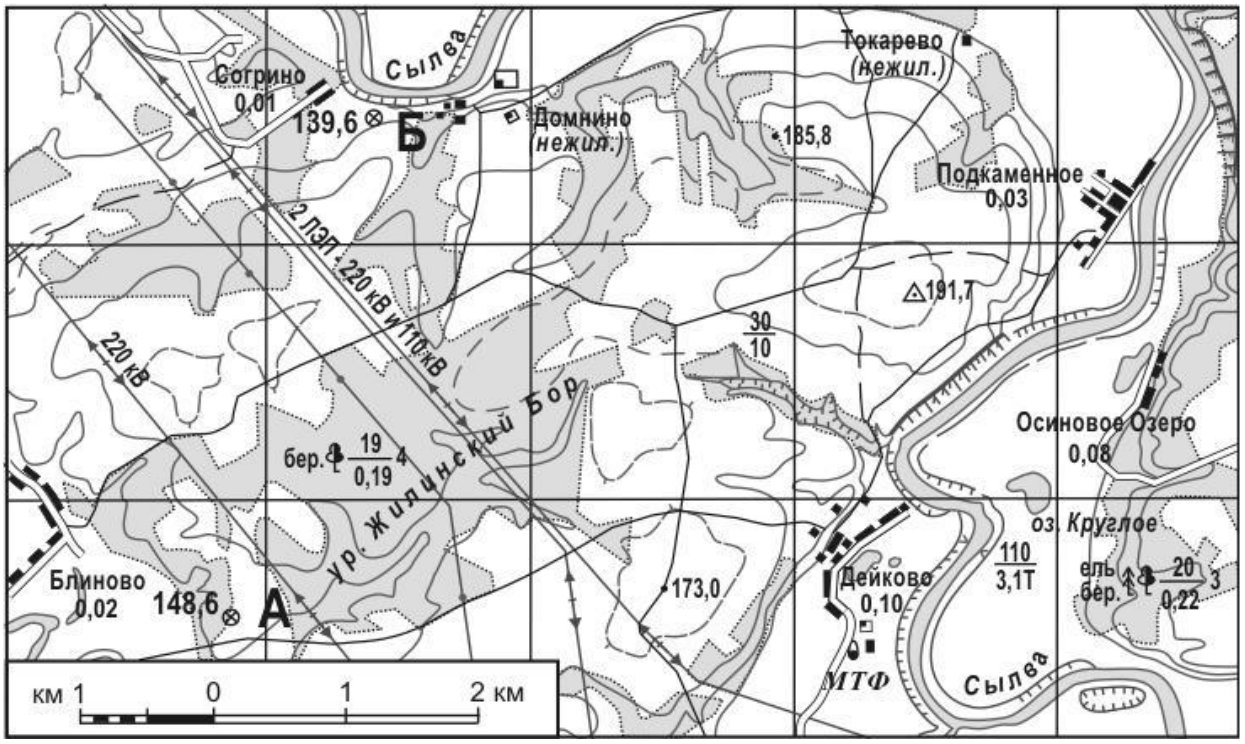

Бланки для ответов:

Тестовый раунд (15 баллов)

1	2	3	4	5	6	7	8	9	10	11	12	13	14	15
1- 2- 3- 4- 5-		1- 2- 3- 4-			1- 2- 3- 4- 5-							1 - 2 – 3 - 4 -	1- 2- 3- 4-	

Аналитический раунд (25 баллов)

Задание 1. (6 баллов)

Ответ:

1 климатограмма - _____ пояс, _____ полушария

2 климатограмма - _____ пояс, _____ полушария

3 климатограмма - _____ пояс, _____ полушария

Задание 2. (2 балла)

Решение:_____

_____

_____

Задание 3. (2 балла)

Ответ:_____

_____

_____

_____

Задание 4. (5 баллов)

Ответ:

1._____

2._____

3._____

_____

Задание 5. (10 баллов)

1._____

_____

2._____

3._____

_____

_____

4._____

_____

_____

5._____

_____